مفكرة قوانين الإستاتيكا

القوى المتلاقية فى نقطة :

* محصلة قوتين جبرياً : $ع^{٢} = ق_{١}^{٢} + ق_{٢}^{٢} + ٢ ق_{١} ق_{٢}$ حتا ى

، $ظا هـ = \frac{ق_{٢} \text{ حا ى}}{ق_{١} + ق_{٢} \text{ حتا ى}}$

حيث : ى الزاوية بين القوتين ، هـ الزاوية بين المحصلة و القوة الأولى

* حالات خاصة :

* القوتان لهما نفس خط العمل و فى نفس الإتجاه :

∴ ى = ٠° ∴ $ع = ق_{١} + ق_{٢}$ " أكبر قيمة للمحصلة "

* القوتان لهما نفس خط العمل و فى إتجاهين متضادين :

∴ ى = ١٨٠° ∴ $ع = |ق_{١} - ق_{٢}|$ " أصغر قيمة للمحصلة "

* القوتان متعامدتان : ∴ ى = ٩٠° ∴ $ع^{٢} = ق_{١}^{٢} + ق_{٢}^{٢}$

، $ظا هـ = \frac{ق_{٢}}{ق_{١}}$

* القوتان متساويتان فى المقدار : $ق_{١} = ق_{٢} = ق$

∴ $ع = ٢ ق$ حتا $\frac{ى}{٢}$ ، $هـ = \frac{ى}{٢}$

* تحليل قوة فى إتجاهين معلومين :

$ق_{١} = \frac{ع \text{ حا } هـ_{٢}}{\text{حا } (هـ_{١} + هـ_{٢})}$ ، $ق_{٢} = \frac{ع \text{ حا } هـ_{١}}{\text{حا } (هـ_{١} + هـ_{٢})}$

حيث : $هـ_{١}$ ، $هـ_{٢}$ الزاويتين بين المحصلة و القوتين على الترتيب

* تحليل قوة فى إتجاهين متعامدين :

$ع^{٢} = س^{٢} + ص^{٢}$ ، $ظا هـ = \frac{ص}{س}$

حيث : س المجموع الجبرى لمركبات القوى فى إتجاه $\overleftarrow{و س}$

، ص المجموع الجبرى لمركبات القوى فى إتجاه $\overleftarrow{و ص}$

توازن مجموعة من القوى المستوية المتلاقية فى نقطة :

* توازن قوتين : إذا أتزن جسم تحت تأثير قوتين فقط تكون القوتين متساويتين فى المقدار و متضادتين فى الإتجاه و يكون خط عملهما واحد

* توازن ثلاث قوى مستوية متلاقية فى نقطة :

إذا أتزنت ثلاث قوى مستوية و متلاقية فى نقطة فإن محصلة أى قوتين منها تكون مساوية فى المقدار لمقدار القوة الثالثة و مضادة لها فى الإتجاه و لهما نفس خط العمل

* إذا أمكن تمثيل ثلاث قوى مستوية و متلاقية فى نقطة بأضلاع مثلث مأخوذة فى ترتيب دورى واحد فإن هذه القوى تكون متزنة

* لكى تتزن ثلاث قوى مستوية متلاقية فى نقطة يجب أن تكون مقاديرها تصلح لأن تكون أطوال أضلاع مثلث

* إذا أتزن جسم تحت تأثير ثلاث قوى مستوية بحيث إلتقى خطا عمل أثنين منها فى نقطة فإن خط عمل القوة الثالثة لابد و أن يمر بهذه النقطة

* قاعدة مثلث القوى : إذا أتزنت ثلاث قوى مستوية و متلاقية فى نقطة و رسم مثلث أضلاعه توازى خطوط عمل القوى الثلاث و فى إتجاه دورى واحد فإن أطوال أضلاع المثلث تتناسب مع مقادير القوى المناظرة

* قاعدة لامى : إذا أتزنت ثلاث قوى مستوية و متلاقية فى نقطة فإن مقدار كل قوة يتناسب مع جيب الزاوية المحصورة بين القوتين الأخريين

* توازن مجموعة من القوى المستوية المتلاقية فى نقطة :

إذا أتزنت مجموعة من القوى المستوية و المتلاقية فى نقطة فإن المجموع الجبرى للمركبات الجبرية لهذه القوى فى كل من إتجاهين متعامدين يتلاشى

أى أن : إذا أتزنت مجموعة من القوى المستوية و المتلاقية فى نقطة

فإن : س = ٠ ، ص = ٠ ، و بالتالى : ع = ٠

* الضرب القياسى لمتجهين

* $\overleftarrow{أ} \odot \overleftarrow{ب} = أ\ ب$ حتا هـ
حيث : $٠ \leq$ هـ $\leq ١٨٠^\circ$
* $\overleftarrow{أ} \odot \overleftarrow{ب} = أ_١ ب_١ + أ_٢ ب_٢$
* $\overleftarrow{أ} \odot \overleftarrow{ب} = ٠ \Longleftarrow \overleftarrow{أ} \perp \overleftarrow{ب}$
* $\overleftarrow{أ} \odot \overleftarrow{ب} = \overleftarrow{ب} \odot \overleftarrow{أ}$
* $\overleftarrow{أ} \odot \overleftarrow{أ} = أ^٢$
* $\overleftarrow{س} \odot \overleftarrow{س} = \overleftarrow{ص} \odot \overleftarrow{ص} = ١$
* $\overleftarrow{س} \odot \overleftarrow{ص} = \overleftarrow{ص} \odot \overleftarrow{س} = ٠$
* المسقط الجبرى لـ $\overleftarrow{ق}$ فى إتجاه $\overleftarrow{أ}$
$= ق$ حتا هـ $= \dfrac{\overleftarrow{ق} \odot \overleftarrow{أ}}{\|\overleftarrow{أ}\|}$
* المركبة الجبرية لـ $\overleftarrow{ق}$ فى إتجاه $\overleftarrow{أ}$
$= \left(\dfrac{\overleftarrow{ق} \odot \overleftarrow{أ}}{أ^٢} \right) \overleftarrow{أ}$

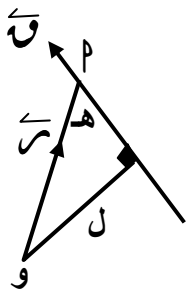
* الضرب الإتجاهى لمتجهين

* $\overleftarrow{أ} \times \overleftarrow{ب} = (أ\ ب$ حا هـ $)\ \overleftarrow{ى}$
، $\overleftarrow{ى}$ متجه وحدة $\perp$ مستوى $\overleftarrow{أ}$ ، $\overleftarrow{ب}$
* $\overleftarrow{أ} \times \overleftarrow{ب} = (أ_١ ب_٢ - أ_٢ ب_١)\ \overleftarrow{ع}$
* $\overleftarrow{أ} \times \overleftarrow{ب} = \overleftarrow{٠} \Longleftarrow \overleftarrow{أ} \parallel \overleftarrow{ب}$
* $\overleftarrow{أ} \times \overleftarrow{ب} = -\ (\overleftarrow{ب} \times \overleftarrow{أ})$
* $\overleftarrow{أ} \times \overleftarrow{أ} = \overleftarrow{٠}$
* $\overleftarrow{س} \times \overleftarrow{س} = \overleftarrow{ص} \times \overleftarrow{ص}$
$= \overleftarrow{ع} \times \overleftarrow{ع} = \overleftarrow{٠}$
* $\overleftarrow{س} \times \overleftarrow{ص} = \overleftarrow{ع}$ ، $\overleftarrow{ص} \times \overleftarrow{ع} = \overleftarrow{س}$
، $\overleftarrow{ع} \times \overleftarrow{س} = \overleftarrow{ص}$
، $\overleftarrow{ص} \times \overleftarrow{س} = -\ \overleftarrow{ع}$
، $\overleftarrow{ع} \times \overleftarrow{ص} = -\ \overleftarrow{س}$ ، ٠٠٠٠

* المعنى الهندسى لمعيار حاصل الضرب الإتجاهى لمتجهين أ ب حا هـ =
مساحة متوازى الأضلاع = ضعف مساحة المثلث الذى فيه $\overleftarrow{أ}$ ، $\overleftarrow{ب}$ ضلعين متجاورين

* عزم قوة بالنسبة لنقطة :

هو مقدار القوة على إحداث دوران حول هذه النقطة



* عزم $\overleftarrow{ق}$ بالنسبة للنقطة " و " :
$\overleftarrow{ج_و} = \overleftarrow{ر} \times \overleftarrow{ق} = \overleftarrow{و أ} \times \overleftarrow{ق}$
$\| \overleftarrow{ج_و} \| = ر\ ق$ حا هـ $= ق\ ل$
* عزم قوة بالنسبة لنقطة ثابت لأى نقطة على خط عمل القوة
أى أن : لا يتغير عزم القوة إذا نقلنا نقطة تأثيرها لأى نقطة أخرى على خط عمل القوة
* عزم قوة بالنسبة لأى نقطة على خط عملها هو المتجه الصفرى
* عزم قوة حول نقطة يكون موجباً إذا كانت القوة تعمل على الدوران حول النقطة فى عكس إتجاه دوران عقارب الساعة ، و يكون سالباً إذا كانت القوة تعمل على الدوران حول النقطة فى نفس إتجاه دوران عقارب الساعة
* إذا كان : $\overleftarrow{ج_ب} = \overleftarrow{ج_أ}$ فإن : خط عمل $\overleftarrow{ق}$ // $\overleftrightarrow{أ ب}$
* إذا كان : $\overleftarrow{ج_ب} = -\ \overleftarrow{ج_أ}$ فإن : خط عمل $\overleftarrow{ق}$ ينصف $\overline{أ ب}$

* نظرية العزوم :

مجموع عزوم عدة قوى متلاقية فى نقطة بالنسبة أى نقطة فى الفراغ يساوى عزم محصلة هذه القوى بالنسبة لنفس النقطة

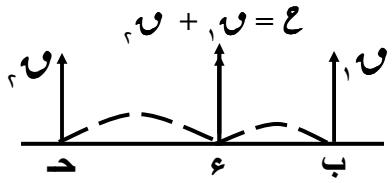
* محصلة قوتين متوازيتين :

*** القوتان متحدا الإتجاه :**

ق = و١ + و٢

خط عمل المحصلة فى نفس الإتجاه

و١ × ب ء = و٢ × ء حـ

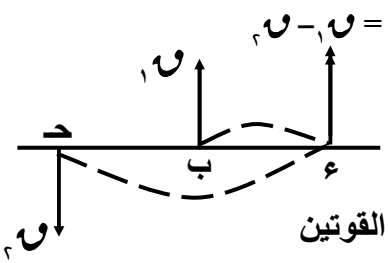


*** القوتان فى إتجاهين متضادين :**

ق = و١ – و٢ حيث : و١ > و٢

خط عمل المحصلة فى نفس الإتجاه

و١ × ب ء = و٢ × ء حـ



* إذا كان : و١ = و٢ = و و فى نفس إتجاه القوتين

فإن : ق = ٢ و و خط عملها ينصف المسافة بين خطا عمليهما

* إذا كان : و١ = و٢ = و و فى نفس إتجاهين متضادين

فإنه : يحدث دوران للجسم و لا توجد محصلة

*** إذا علم ق ، و١ :**

* و إذا كانتا فى إتجاهين متضادين فإن : و٢ = ق + و١

و خط عمل و٢ يقع بين خطى عمل و١ ، ق و فى إتجاه خط عمل ق

* و إذا كانتا فى إتجاه واحد فإن :

* إذا كان : ق > و١ فإن : و٢ = ق – و١ ، و خط عمل و٢ يقع بين خطى عمل و١ ، ق ناحية ق و فى إتجاه ق

* إذا كان : ق < و١ فإن : و٢ = و١ – ق ، خط عمل و٢ يقع خارج خطى عمل و١ ، ق ناحية و١ و فى إتجاه ق

* محصلة عدة قوى متوازية :

القياس الجبرى لعزم المحصلة حول نقطة إختيارية فى مستوى القوى = مجموع القياسات الجبرية لعزوم القوى حول نفس النقطة

* توازن أكثر من ثلاث قوى متوازية مستوية :

إذا أتزن جسم متماسك تحت تأثير مجموعة من القوى المستوية فإن :

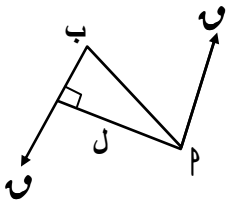
١ – مجموع القياسات الجبرية لهذه القوى = صفر

٢ – مجموع القياسات الجبرية لعزوم القوى حول أية النقطة فى مستويها = صفر

*** الإزدواج** : هو مجموعة مكونة من قوتين متساويتين فى المقدار و متضادتين فى الإتجاه و لا يجمعهما خط عمل واحد

*** عزم الإزدواج** : عزم الإزدواج هو متجه ثابت ، لا يعتمد على النقطة التى ينسب إليها عزمى قوتيه ، و يساوى عزم إحدى قوتيه بالنسبة لأى نقطة على خط عمل القوة الأخرى

ع = ب أ × و ، ‖ ع ‖ = و × ل



*** إشارة القياس الجبرى لعزم الإزدواج** : كما فى العزوم

*** توازن إزدواجين** : يتوازن إزدواجان مستويان معاً إذا كان :

ع١ + ع٢ = صفر أو ع١ = – ع٢

* الإزدواج لا يتزن إلا مع إزدواج

*** تكافؤ إزدواجين :**

يتكافئ إزدواجان مستويان معاً إذا كان : ع١ = ع٢

* الإزدواج لا يكافئ إلا إزدواج

*** مجموع إزدواجين أو أكثر " الإزدواج المحصل "** : ع = ع١ + ع٢ + ٠٠٠٠ + عن

*** قاعدة هامة :**

إذا أثرت ثلاث قوى مستوية فى جسم متماسك و مثلها تمثيلاً تاماً أضلاع مثلث (مضلع مقفل) مأخوذة فى ترتيب دورى واحد كانت هذه المجموعة تكافئ إزدواجاً معيار عزمه يساوى ضعف مساحة سطح المثلث (المضلع) × م

حيث : م = مقدار القوة ÷ طول الضلع الممثل لها